ALLES TELT Q

naam:

BLOK 4

BASIS
WERKSCHRIFT

ThiemeMeulenhoff

ANTWOORDEN

ALLES TELT Q

GROEP 5
BASISWERKSCHRIFT
ANTWOORDEN

BLOK 4

© ThiemeMeulenhoff, Amersfoort

lesdoel
Ik leer delen met rest.

1

Nu jij!

a

kinderen	groepjes	over	som
16	3	1	16 : 5 = 3 rest 1
19	3	4	19 : 5 = 3 rest 4
20	4	0	20 : 5 = 4 rest 0
33	6	3	33 : 5 = 6 rest 3

b
16 : 7 = 2..... rest 2.....
19 : 7 = 2..... rest 5.....
20 : 7 = 2..... rest 6.....
33 : 7 = 4..... rest 5.....

2

Vul in.

:	5		
11	2	rest	1
17	3	rest	2
23	4	rest	3
29	5	rest	4

:	3		
7	2	rest	1
10	3	rest	1
20	6	rest	2
25	8	rest	1

:	4		
15	3	rest	3
17	4	rest	1
24	6	rest	0
26	6	rest	2

:	6		
10	1	rest	4
13	2	rest	1
20	3	rest	2
30	5	rest	0

3

Schrijf de deelsom en reken uit.

14 bidons

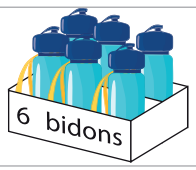

Hoeveel volle houders zijn er en hoeveel bidons zijn er over?

som: 14..... : 6..... = 2.....

rest 2.....

13 citroenen

Hoeveel volle netjes zijn er en hoeveel citroenen zijn er over?

som: 13..... : 5..... = 2.....

rest 3.....

17 koeken

Hoeveel volle pakjes zijn er en hoeveel koeken zijn er over?

som: 17..... : 4..... = 4.....

rest 1.....

4

Kleur de rest.

27 : 6 = 4

rest 2
rest 3
rest 4

36 : 8 = 4

rest 2
rest 3
rest 4

26 : 5 = 5

rest 1
rest 3
rest 4

48 : 7 = 6

rest 2
rest 3
rest 6

5

Geef som en antwoord dezelfde kleur.

42 : 5 =	63 : 8 =	27 : 4 =	2 rest 3	7 rest 1	6 rest 3
36 : 5 =	25 : 8 =	17 : 4 =	7 rest 7	8 rest 1	8 rest 2
82 : 9 =	13 : 5 =	25 : 3 =	9 rest 2	9 rest 1	3 rest 1
	47 : 5 =			4 rest 1	

6

Vul in.

27 : 4 = 6 rest 3
26 : 4 = 6 rest 2
15 : 3 = 5 rest 0
22 : 3 = 7 rest 1

18 : 4 = 4 rest 2
54 : 6 = 9 rest 0
42 : 6 = 7 rest 0
56 : 6 = 9 rest 2

15 : 4 = 3 rest 3
38 : 4 = 9 rest 2
24 : 3 = 8 rest 0
29 : 3 = 9 rest 2

7

Schrijf de som en reken uit.

Hoeveel volle verpakkingen zijn er en hoeveel rollen plakband zijn er over?

rollen plakband	som
15	15 : 6 = 2 rest 3
18	18 : 6 = 3 rest 0
20	20 : 6 = 3 rest 2
24	24 : 6 = 4 rest 0

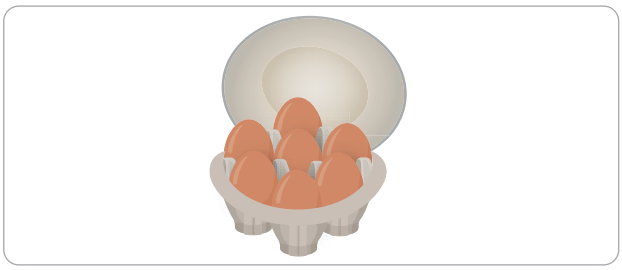

Hoeveel volle eierdozen zijn er en hoeveel eieren zijn er over?

eieren	som
18	18 : 7 = 2 rest 4
22	22 : 7 = 3 rest 1
32	32 : 7 = 4 rest 4
41	41 : 7 = 5 rest 6

8

Vul in.

Meerdere antwoorden mogelijk.

22 : 4 = 5 rest 2
Leg uit hoe je rekent:
.....

39 : 6 = 6 rest 3
Leg uit hoe je rekent:
.....

19 : 3 = 6 rest 1
Leg uit hoe je rekent:
.....

1 Deze opgave maak je digitaal.

2

Maak vast.

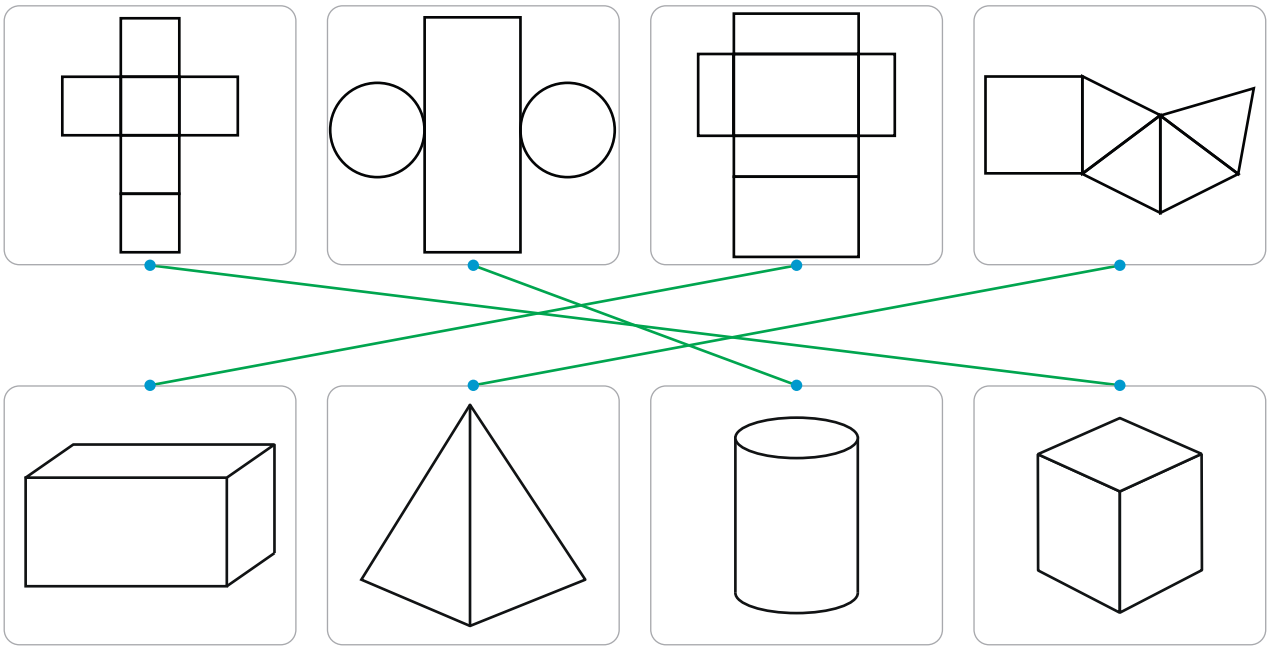

3

Schat en maak vast.

298 + 199 | 165 + 830 | 396 + 440 | 469 – 358 | 291 – 154

400 | 650 | 500 | 700 | 1000 | 100 | 850 | 250 | 450 | 150

615 – 222 | 359 + 305 | 845 – 133 | 654 – 216 | 570 – 323

4

Vul in.

Schat op honderdtallen.

	Ik schat:	Het is precies:
183 + 401	600	584
603 + 95	700	698
287 + 121	400	408
147 + 845	1000	992

Schat op honderdtallen of vijftigtallen.

	Ik schat:	Het is precies:
114 + 447	550	561
506 + 251	750	757
696 + 117	800	813
126 + 715	850	841

lesdoel
Ik leer delen met rest.

5

Schrijf de deelsom en reken uit.



kinderen	som
25	25 : 4 = 6 rest 1
30	30 : 4 = 7 rest 2
33	33 : 4 = 8 rest 1
39	39 : 4 = 9 rest 3

kinderen	som
25	25 : 6 = 4 rest 1
30	30 : 6 = 5 rest 0
33	33 : 6 = 5 rest 3
39	39 : 6 = 6 rest 3

6

Vul in.

:	3		
11	3	rest	2
17	5	rest	2
23	7	rest	2
29	9	rest	2

:	4		
10	2	rest	2
17	4	rest	1
20	5	rest	0
25	6	rest	1

:	5		
21	4	rest	1
27	5	rest	2
32	6	rest	2
46	9	rest	1

:	6		
15	2	rest	3
21	3	rest	3
28	4	rest	4
39	6	rest	3

7

Kleur het juiste getal.

47	
48	: 6 = 8 rest 1
49	

53	
54	: 7 = 7 rest 4
55	

23	
24	: 5 = 4 rest 4
25	

66	
67	: 8 = 8 rest 4
68	

14	
15	: 3 = 4 rest 2
16	

33	
34	: 4 = 8 rest 3
35	

21	
22	: 7 = 3 rest 2
23	

47	
48	: 9 = 5 rest 2
49	

8

Vul in.

27 : 6 = 4 rest 3
28 : 7 = 4 rest 0
33 : 4 = 8 rest 1
17 : 5 = 3 rest 2

34 : 4 = 8 rest 2
20 : 6 = 3 rest 2
63 : 7 = 9 rest 0
50 : 7 = 7 rest 1

48 : 6 = 8 rest 0
19 : 4 = 4 rest 3
32 : 4 = 8 rest 0
53 : 6 = 8 rest 5

lesdoel
Ik oefen met bouwplaten van figuren.

1

Nu jij! Meerdere antwoorden mogelijk.

Kruis de juiste uitslag aan en geef de vlakken de juiste kleur.

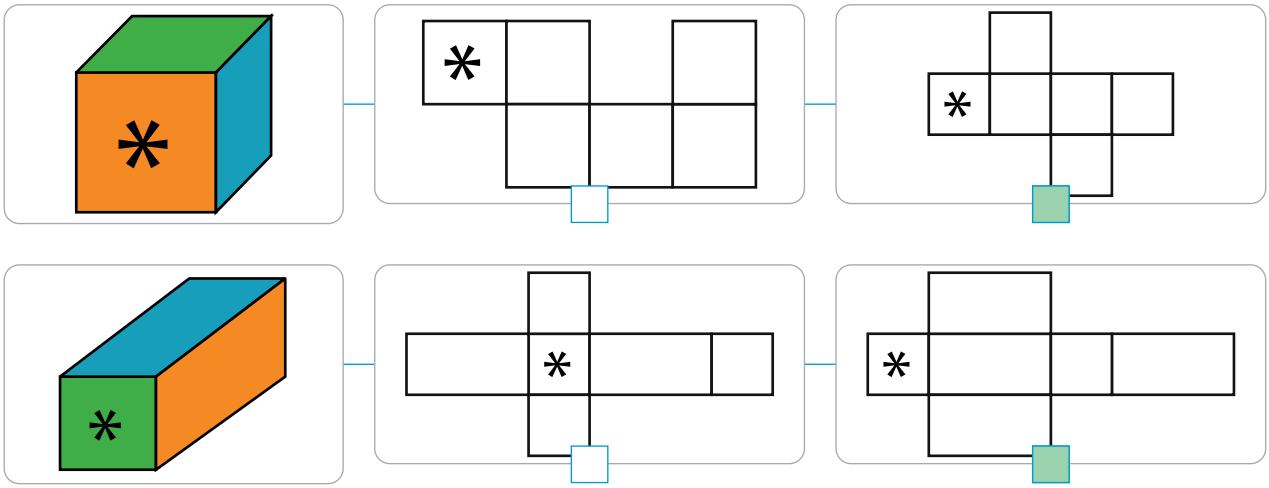

2

Teken de plakrandjes op 2 manieren. Meerdere antwoorden mogelijk.

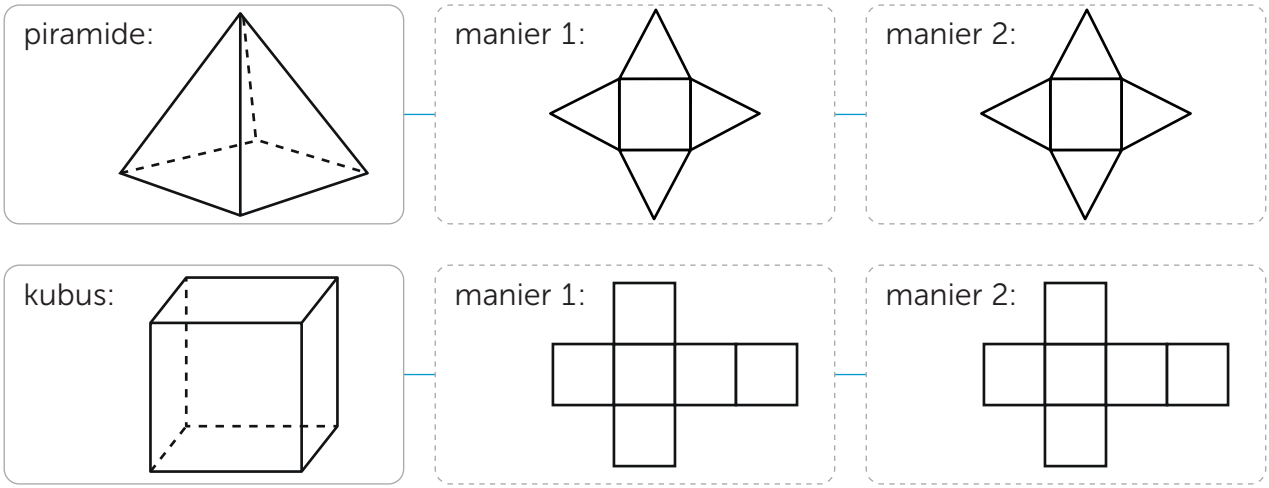

3

Kruis de juiste uitslag aan.

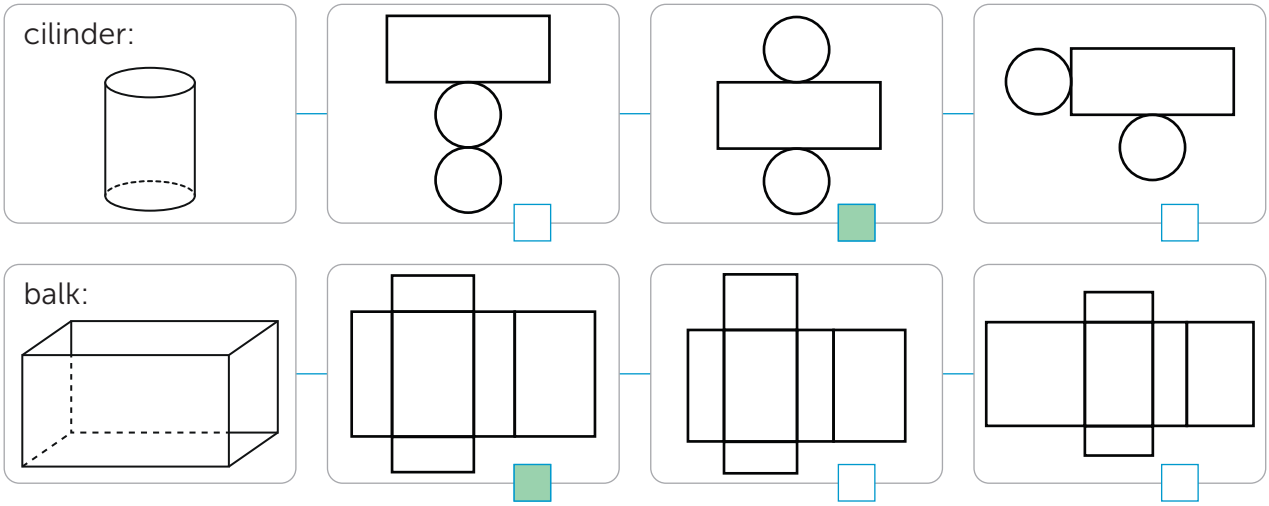

4

Kruis aan welke plakrandjes weg kunnen. Meerdere antwoorden mogelijk.

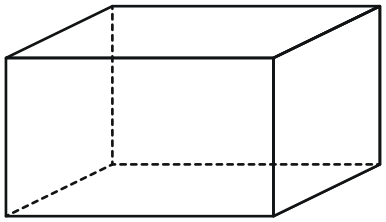

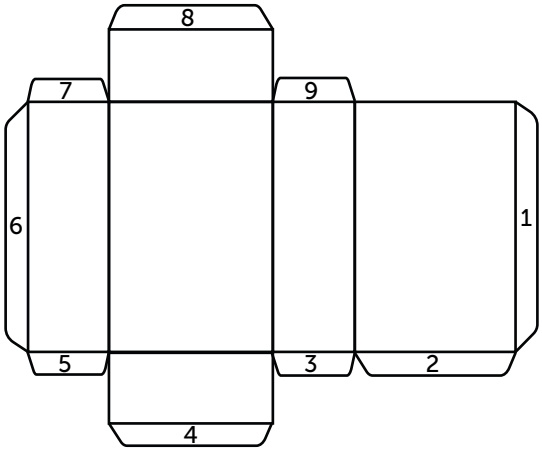

Plakrand 4 of 6 kan weg.

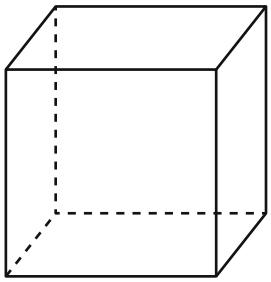

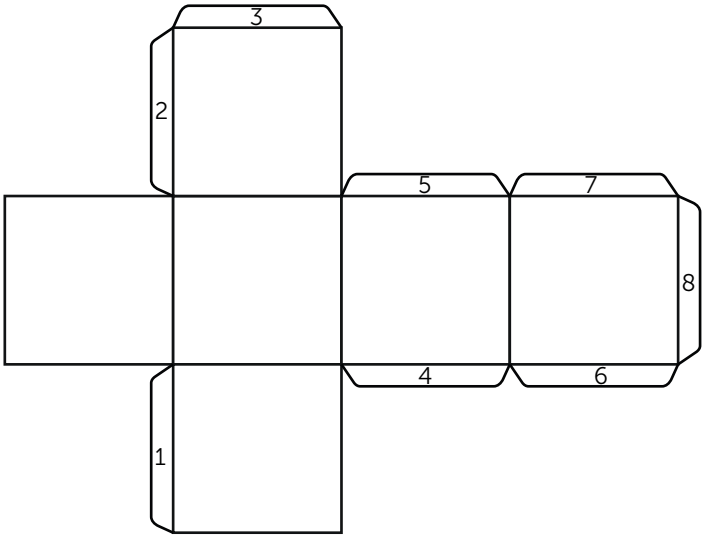

Plakrand 3 of 7 kan weg.

5

Kruis de juiste uitslag aan.



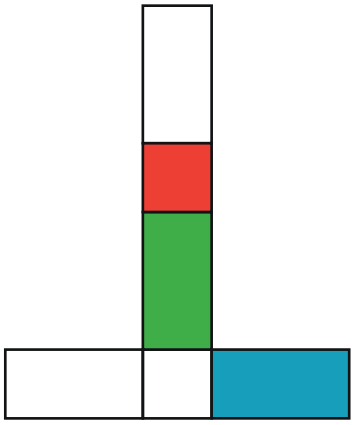

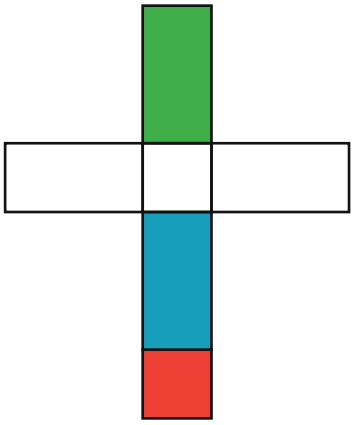

1 Deze opgave maak je digitaal.

2

Vul in.

500 + 30 + 7 = 537

900 + 70 + 5 = 975

400 + 90 + 6 = 496

300 + 50 + 8 = 358

391 = 300 + 90 + 1

549 = 500 + 40 + 9

262 = 200 + 60 + 2

843 = 800 + 40 + 3

70 + 800 + 9 = 879

40 + 1 + 700 = 741

400 + 2 + 70 = 472

10 + 3 + 600 = 613

3

Kleur de getallen.

- 4 is 40 waard.
- 4 is 4 waard.
- 3 is 300 waard.
- 8 is 800 waard.
- 8 is 8 waard.
- 1 is 10 waard.
- 1 is 100 waard.

238	369	126	449
323	734	245	855
165	458	610	233
717	267	832	385
447	254	979	511
853	133	268	604

4

Maak getallen met dezelfde cijfers. Meerdere antwoorden mogelijk.

Maak een groter getal.

372 .....

634 .....

507 .....

219 .....

496 .....

576 .....

260 .....

114 .....

380 .....

795 .....

240 .....

916 .....

836 .....

121 .....

908 .....

251 .....

5

Kruis de uitslag met de juiste plakrandjes aan.

kubus:

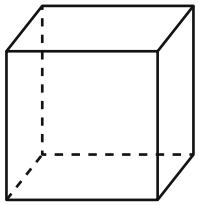

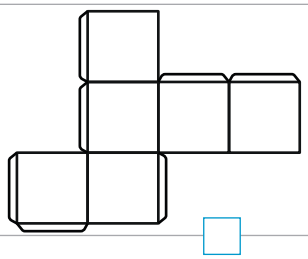

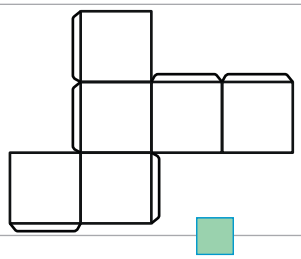

piramide:

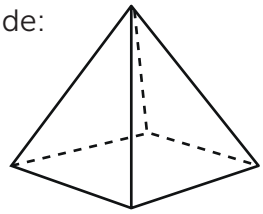

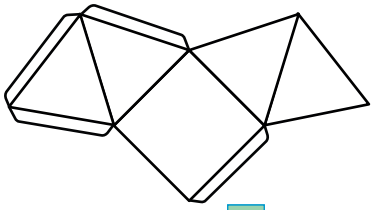

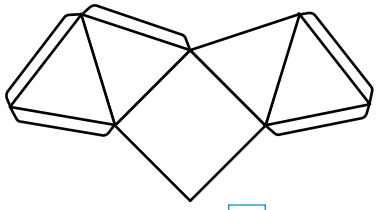

lesdoel
Ik oefen met bouwplaten van figuren.

6

Teken de plakrandjes op 2 manieren.

cilinder:



manier 1:

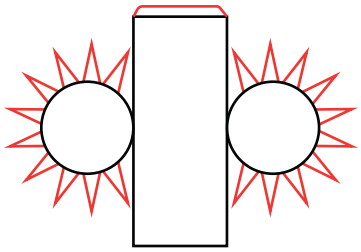

manier 2:

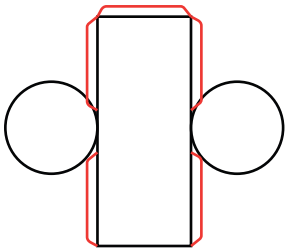

balk:

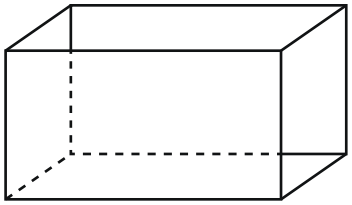

manier 1:

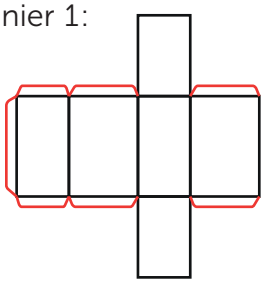

manier 2:

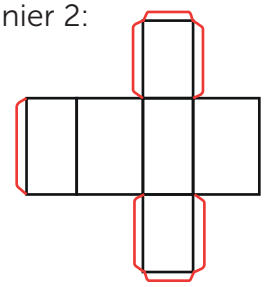

7

Teken de kleuren op de juiste plaats.

Meerdere antwoorden mogelijk.

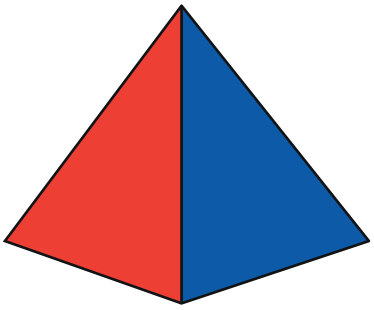

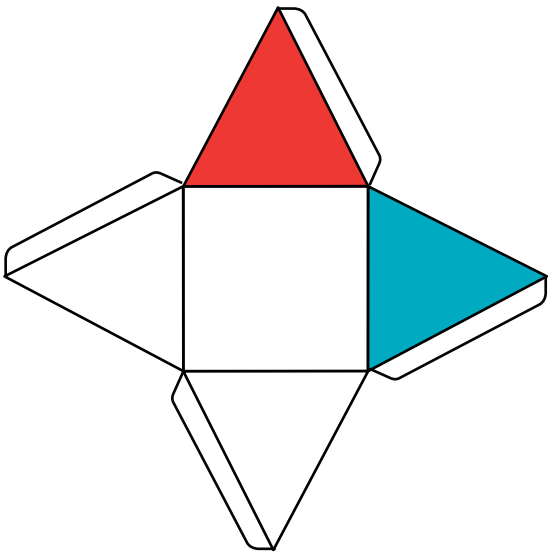

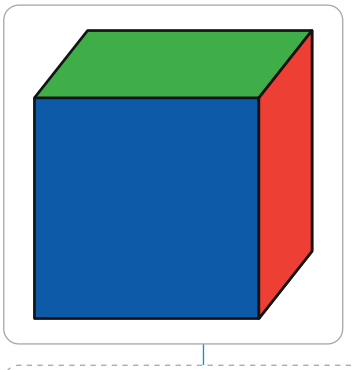

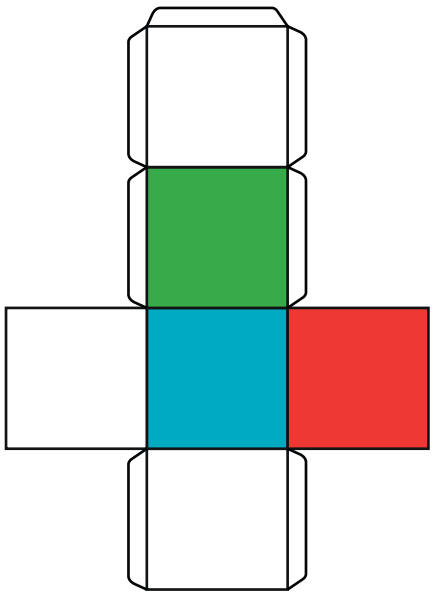

1

Reken handig.

540 + 60 = 600	710 + 90 = 800	470 + 30 = 500	820 + 80 = 900
541 + 59 = 600	711 + 89 = 800	469 + 31 = 500	821 + 79 = 900
539 + 61 = 600	712 + 88 = 800	471 + 29 = 500	819 + 81 = 900
538 + 62 = 600	709 + 91 = 800	472 + 28 = 500	818 + 82 = 900

2

Vul in.

a Kruis aan met welke uitslag je de kubus kan maken.

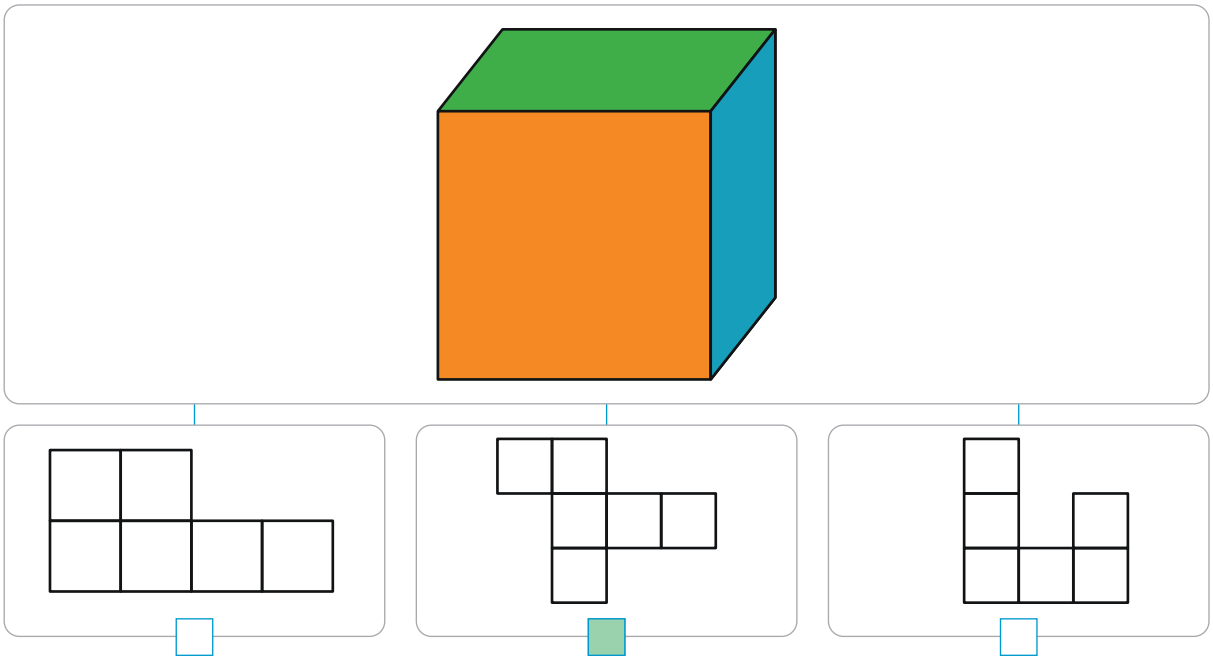

b Teken de gekozen uitslag groot. Geef de vlakken de juiste kleuren en teken plakrandjes.

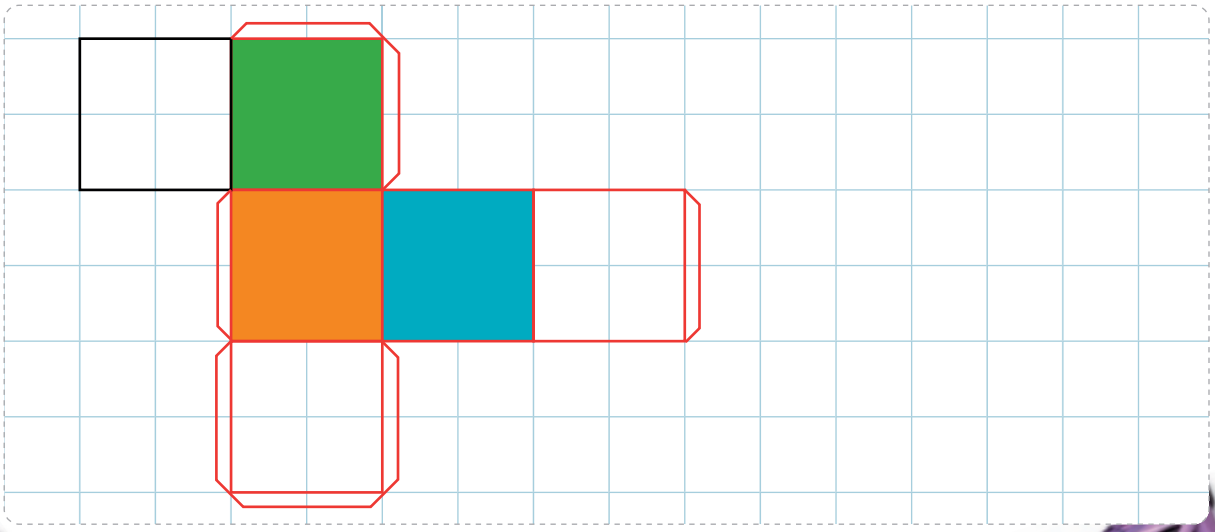

1

Schrijf de deelsom en reken uit.

25 bidons



Hoeveel volle houders zijn er en hoeveel bidons zijn er over?

som: 25 : 6 = 4

rest 1

35 bolletjes



Hoeveel volle zakken zijn er en hoeveel bolletjes zijn er over?

som: 35 : 8 = 4

rest 3

50 eieren

Hoeveel volle pakjes zijn er en hoeveel eieren zijn er over?

som: 50 : 7 = 7

rest 1

2

Vul in.

Hoeveel volle verpakkingen zijn er en hoeveel appels zijn er over?

appels	som
14	14 : 4 = 3 rest 2
16	16 : 4 = 4 rest 0
18	18 : 4 = 4 rest 2
22	22 : 4 = 5 rest 2



Hoeveel pakken toiletpapier zijn er en hoeveel rollen zijn er over?

wc-rollen	som
18	18 : 6 = 3 rest 0
22	22 : 6 = 3 rest 4
24	24 : 6 = 4 rest 0
28	28 : 6 = 4 rest 4

3

Kleur het juiste getal.

11	
12	: 2 = 6 rest 1
13	

25	
26	: 3 = 8 rest 2
27	

54	
55	: 8 = 6 rest 6
56	

43	
38	: 7 = 5 rest 4
39	

4

Kruis de juiste uitslag aan.

kubus:

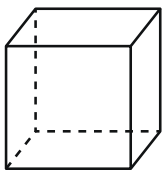

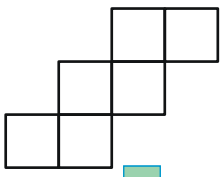

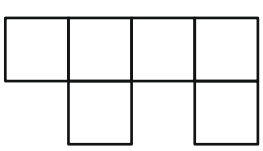

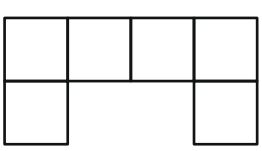

lesdoel
Ik leer splitsend optellen en aftrekken tot en met 1000.

1

Nu jij!

som:	tussenstap:	naar het antwoord:
251 + 624 =	200 + 600 = 800 50 + 20 = 70 1 + 4 = 5	800 + 70 + 5 = 875

som:	tussenstap:	naar het antwoord:
975 – 351 =	900 – 300 = 600 70 – 50 = 20 5 – 1 = 4	600 + 20 + 4 = 624

2

Reken uit.
Schrijf de tussenstappen op het printblad.

327 + 371 = 698	547 + 222 = 769	897 – 371 = 526	528 – 301 = 227
714 + 236 = 950	268 + 111 = 379	975 – 264 = 711	988 – 365 = 623
592 + 207 = 799	524 + 432 = 956	458 – 344 = 114	555 – 333 = 222
651 + 246 = 897	325 + 412 = 737	763 – 630 = 133	689 – 540 = 149

3

Schrijf de som en reken uit.
Je mag het printblad gebruiken.

vrijdag: 326 bezoekers
zaterdag: 132 bezoekers meer

zaterdag: 326 + 132 = 458 bezoekers

vanmorgen: 708 stappen
vanmiddag: 231 stappen meer

vanmiddag:

708 + 231 = 939 stappen

Saar: 589 blokjes.
Evandro: 182 blokjes minder

Evandro:

589 – 182 = 407 blokjes

4

Reken uit.

400 + 30 + 6 = 436	800 + 50 + 5 = 855	50 + 9 + 400 = 459	20 + 7 + 300 = 327
600 + 50 + 9 = 659	900 + 40 + 6 = 946	90 + 6 + 700 = 796	60 + 4 + 900 = 964
500 + 80 + 1 = 581	700 + 60 + 7 = 767	30 + 8 + 500 = 538	10 + 2 + 800 = 812
300 + 40 + 3 = 343	200 + 90 + 3 = 293	40 + 1 + 100 = 141	70 + 3 + 600 = 673

5

Bedenk verschillende sommen. Meerdere antwoorden mogelijk.

			+				= 849				+				= 723
			+				= 849				+				= 723
			+				= 849				+				= 723
			+				= 849				+				= 723
			+				= 432				+				= 116
			+				= 432				+				= 116
			+				= 432				+				= 116
			+				= 432				+				= 116

6

Maak getallen met dezelfde cijfers. Meerdere antwoorden mogelijk.

Maak een groter getal.

429 ..... 366 .....

367 ..... 270 .....

386 ..... 809 .....

485 ..... 383 .....

Maak een kleiner getal.

526 ..... 755 .....

781 ..... 803 .....

938 ..... 551 .....

524 ..... 960 .....

7

Vul in. Meerdere antwoorden mogelijk.

Er zitten 645 mensen in de trein. 321 mensen stappen uit.

som:	tussenstap:	naar het antwoord:
645 – 321		324

Er zijn 586 kinderen in de school. 232 kinderen lopen eruit.

som:	tussenstap:	naar het antwoord:
586 – 232		354

Er zitten al 828 mensen in de trein. 101 mensen stappen in.

som:	tussenstap:	naar het antwoord:
828 + 101		929

1 Deze opgave maak je digitaal.

2

Kruis de juiste maat aan.

☒ g ☐ kg

☐ g ☒ kg



☒ g ☐ kg



☒ g ☐ kg

☐ g ☒ kg



☒ g ☐ kg

☐ g ☒ kg

☐ g ☒ kg

3

Reken uit.

28 : 4 = 7 want 7 × 4 = 28

80 : 8 = 10 want 10 × 8 = 80

54 : 9 = 6 want 6 × 9 = 54

49 : 7 = 7 want 7 × 7 = 49

72 : 8 = 9 want 9 × 8 = 72

40 : 5 = 8 want 8 × 5 = 40

32 : 8 = 4 want 4 × 8 = 32

36 : 6 = 6 want 6 × 6 = 36

4

Vul in.

30 : 5 = 6

14 : 2 = 7

24 : 3 = 8

36 : 9 = 4

42 : 7 = 6

35 : 7 = 5

81 : 9 = 9

48 : 6 = 8

45 : 9 = 5

42 : 6 = 7

28 : 7 = 4

32 : 4 = 8

15 : 5 = 3

16 : 8 = 2

27 : 3 = 9

30 : 5 = 6

5

Reken uit.

400 + 30 + 6 = 436

600 + 90 + 3 = 693

500 + 20 + 7 = 527

300 + 80 + 1 = 381

50 + 9 + 400 = 459

70 + 1 + 800 = 871

30 + 4 + 500 = 534

60 + 7 + 200 = 267

583 = 500 + 80 + 3

671 = 600 + 70 + 1

892 = 800 + 90 + 2

165 = 100 + 60 + 5

lesdoel
Ik leer splitsend optellen en aftrekken tot en met 1000.

6

Reken uit.
Je mag het printblad gebruiken.

415 + 371 = 786	193 + 806 = 999	897 – 254 = 643	509 – 108 = 401
628 + 331 = 959	362 + 516 = 878	986 – 225 = 761	367 – 255 = 112
586 + 303 = 889	365 + 324 = 689	766 – 342 = 424	233 – 112 = 121
420 + 428 = 848	452 + 501 = 953	546 – 334 = 212	635 – 323 = 312

7

Schrijf de som en reken uit.
Je mag het printblad gebruiken.

vrijdag: 326 bezoekers
zaterdag: 132 bezoekers meer

zaterdag: 326 + 132 =

458 bezoekers

Er zijn al 311 kinderen in de school. 117 kinderen gaan ook naar binnen.

In totaal zijn er 311 +

117 = 428 kinderen in de school.

vanmorgen: 362 stappen
vanmiddag: 407 stappen meer

vanmiddag:

362 + 407 = 769 stappen

woensdag: 522 punten
zaterdag: 133 punten meer

zaterdag:

522 + 133 = 655 punten

Er zitten 834 mensen in de trein.
322 mensen stappen uit.

Er zitten 834 – 322 =

512 mensen in de trein.

Danny: 646 blokjes
Evelien: 132 blokjes minder

Evelien heeft:

646 – 132 = 514 blokjes

8

Kruis aan.

Splitsend optellen en aftrekken kan ik al:

☐ heel goed ☐ goed ☐ een beetje ☐ bijna

lesdoel
Ik oefen rekenen met kilogram en gram.

1

Nu jij.



Welk product is het zwaarst? aardappelen

Welk product is het lichtst? citroen

Hoeveel wegen de crackers en de citroen samen? 275 g

Hoeveel zwaarder zijn de uien dan het pak zout? 1 en een halve kg

Welke producten wegen samen 1 kg? waspoeder en crackers

2

Kruis het juiste gewicht aan.



- [x] 5 kg
- [ ] 50 g

- [ ] 3 kg
- [x] 300 g

- [ ] 1 kg
- [x] 100 g

- [x] 3 kg
- [ ] 500 g

- [ ] 5 kg
- [x] 500 g

- [ ] 2 kg
- [x] 250 g

- [ ] 4 kg
- [x] 400 g



- [ ] 2 kg
- [x] 420 g

- [x] 1 kg
- [ ] 100 g

- [ ] 3 kg
- [x] 143 g

3

Kleur wat het zwaarst is.

600 g	320 g	390 g	900 g	8 kg
6 kg	2 kg	1 kg	een halve kg	60 g
320 g	350 g	4 kg	650 g	540 g
1 kg	5 kg	180 g	1 kg	9 kg

4

Schrijf van licht naar zwaar.

230 g	4 kg	678 g	817 g	3 kg	198 g	4 kg	532 g	425 g
230 g	678 g	4 kg	198 g	817 g	3 kg	425 g	532 g	4 kg
3 kg	345 g	451 g	784 g	6 kg	976 g	876 g	9 kg	916 g
345 g	451 g	3 kg	784 g	976 g	6 kg	876 g	916 g	9 kg
320 g	178 g	5 kg	442 g	25 kg	461 g	327 g	1 kg	999 g
178 g	320 g	5 kg	442 g	461 g	25 kg	327 g	999 g	1 kg
637 g	23 kg	978 g	735 g	621 g	81 kg	894 g	3 kg	35 g
637 g	978 g	23 kg	621 g	735 g	81 kg	35 g	894 g	3 kg

5

Vul de verzendkosten in.

Tarieven per gram

0 g – 50 g	51 g – 500 g	501 g – 2 kg	meer dan 2 kg
€ 1	€ 3	€ 5	€ 8

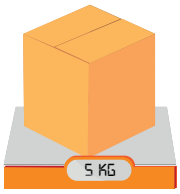

€ 8

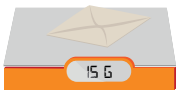

€ 1

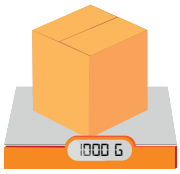

€ 5

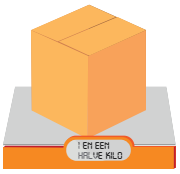

€ 5

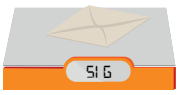

€ 3

6

Vul in < > of =

300 g + 600 g ....<.... 1 kg	1000 g – 350 g ....>.... 500 g	840 g + 150 g ....<.... 1000 g
650 g + 180 g ....<.... 2 kg	630 g + 340 g ....<.... 1000 g	1000 g – 60 g ....>.... 900 g
240 g + 760 g ....=.... 1 kg	960 g – 750 g ....>.... 200 g	870 g – 150 g ....>.... 700 g
1 kg – 180 g ....<.... 1000 g	850 g – 320 g ....<.... 620 g	440 g + 550 g ....<.... 1 kg

7

Vul in.

Meerdere antwoorden mogelijk.

Maak samen 1 kg.

banaan: 150 g	mandarijn: 50 g	sinaasappel: 200 g	appel: 125 g	druif: 10 gram
2	3	1	2	10

1 Deze opgave maak je digitaal.

2 Kruis de juiste maat aan.

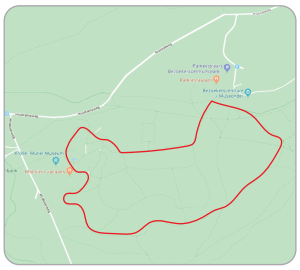

☐ 7 m
☒ 7 km

☒ 5 m
☐ 5 km

☒ 60 m
☐ 60 km

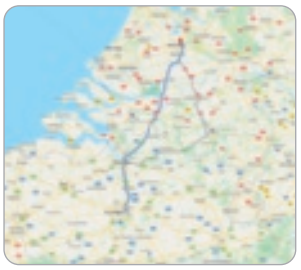

☐ 173 m
☒ 173 km

3 Reken uit.

3 dozen kosten 5 euro. Hoeveel kosten 24 dozen?

aantal dozen	3				24
prijs	€ 5				€ 40

4 pakken kosten 6 euro. Hoeveel kosten 16 pakken?

pakken melk	4				16
prijs	€ 6				€ 24

5 pakjes kosten 6 euro. Hoeveel kosten 30 pakjes?

pakje plaatjes	5				30
prijs	€ 6				€ 36

2 mokken kosten 13 euro. Hoeveel kosten 8 mokken?

mok	2				8
prijs	€ 13				€ 52

4 Vul in.

pakjes	1	2	4	10	14
stiften	7	14	28	70	98

flessen appelsap	3	6	9	12	18
prijs	€ 5	€ 10	€ 15	€ 20	€ 30

pennen	4	8	12	16	28
prijs	€ 5	€ 10	€ 15	€ 20	€ 35

sleutelhangers	2	4	8	12	24
prijs	€ 3	€ 6	€ 12	€ 18	€ 36

lesdoel
Ik oefen rekenen met kilogram en gram.

5

Vul in.

200 g + 800 g = 1 kg	1 kg – 400 g = 600 g	1 kg – 250 g = 750 g
530 g + 220 g = 750 g	1 kg – 640 g = 360 g	750 g – 430 g = 320 g
335 g + 165 g = 500 g	1 kg – 330 g = 670 g	1 kg – 450 g = 550 g
180 g + 820 g = 1 kg	1 kg – 880 g = 120 g	500 g – 380 g = 120 g

6

Kleur wat het zwaarst is.

1000 g	een halve kg	450 g	3 kg	590 g
10 kg	160 g	38 kg	330 g	9 kg
380 g	1 kg	890 g	460 g	een halve kg
1000 kg	100 g	8 kg	40 kg	1000 g

7

Schrijf van licht naar zwaar.

230 g	4 kg	678 g	817 g	3 kg	198 g	4 kg	532 g	425 g
230 g	678 g	4 kg	198 g	817 g	3 kg	425 g	532 g	4 kg
3 kg	345 g	451 g	784 g	6 kg	976 g	876 g	9 kg	916 g
345 g	451 g	3 kg	784 g	976 g	6 kg	876 g	916 g	9 kg
320 g	178 g	5 kg	442 g	25 kg	461 g	327 g	1 kg	999 g
178 g	320 g	5 kg	442 g	461 g	25 kg	327 g	999 g	1 kg
637 g	23 kg	978 g	735 g	621 g	81 kg	894 g	3 kg	35 g
637 g	978 g	23 kg	621 g	735 g	81 kg	35 g	894 g	3 kg

8

Vul in.
Maak samen 1 kg.

Meerdere antwoorden mogelijk.

blik sperziebonen: 300 g	krentenbol: 50 g	pakje soep: 10 g	pak rijst: 400 g	pak paneermeel: 200 g

1

Reken handig.

540 – 60 = 480	420 – 50 = 370	860 – 80 = 780	350 – 60 = 290
540 – 61 = 479	420 – 51 = 369	861 – 80 = 781	355 – 60 = 295
540 – 59 = 481	420 – 48 = 372	862 – 80 = 782	355 – 65 = 290
540 – 58 = 482	420 – 46 = 374	862 – 81 = 781	350 – 61 = 289

2

Nu even anders. Kleur.
Zoek de honderdtallen, tientallen en eenheden om de getallen te maken.

500	200	9
40	300	2
80	70	6

579	382	246

6	600	1
800	900	8
70	30	60

976	638	861

1	60	40
800	8	400
100	20	4

841	424	168

3

Vul in.

600	+	7	+	80	= 687
+		+		+	
40	+	300	+	3	= 343
+		+		+	
5	+	50	+	200	= 255
= 645		= 357		= 283	

500	+	7	+	40	= 547
+		+		+	
20	+	600	+	5	= 625
+		+		+	
6	+	10	+	900	= 916
= 526		= 617		= 945	

1

Reken uit.

400 + 30 + 6 = 436

800 + 90 + 1 = 891

300 + 80 + 7 = 387

500 + 40 + 2 = 542

50 + 9 + 400 = 459

70 + 3 + 200 = 273

90 + 1 + 500 = 591

10 + 6 + 400 = 416

843 = 800 + 40 + 3

764 = 700 + 60 + 4

324 = 300 + 20 + 4

167 = 100 + 60 + 7

2

Reken uit.
Je mag het printblad gebruiken.

415 + 371 = 786

187 + 812 = 999

125 + 852 = 977

459 + 120 = 579

327 + 331= 658

718 + 161 = 879

325 + 622 = 947

426 + 463 = 889

897 – 254 = 643

328 – 127 = 201

966 – 341 = 625

183 – 52 = 131

975 – 163 = 812

875 – 650 = 225

645 – 233 = 412

498 – 364 = 134

3

Kruis het juiste gewicht aan.

- [x] 4 kg
- [ ] 25 g

- [ ] 3 kg
- [x] 250 g

- [x] 18 kg
- [ ] 980 g

- [ ] 25 kg
- [x] 250 g

- [x] 38 kg
- [ ] 76 g

- [ ] 15 kg
- [x] 35 g



- [x] 7 kg
- [ ] 1000 g



- [ ] 1 kg
- [x] 70 g

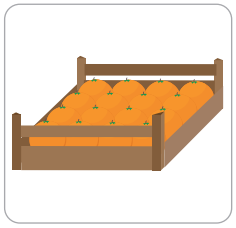

- [x] 2 kg
- [ ] 550 g

- [ ] 5 kg
- [x] 840 g

4

Vul in.

300 g + 700 g = 1 kg

480 g + 520 g = 1 kg

510 g + 490 g = 1 kg

680 g + 320 g = 1 kg

340 g + 410 g = 750 g

640 g + 110 g = 750 g

320 g + 430 g = 750 g

600 g + 150 g = 750 g

1 kg – 480 g = 520 g

1 kg – 560 g = 440 g

1 kg – 765 g = 235 g

1 kg – 640 g = 360 g